# Olimpiada județeană de geografie- proba practică – 03 martie 2018 - clasa a IX-a

# Földrajz tantárgyverseny - megyei szakasz – gyakorlati próba – 2018. március 03. IX. osztály

- În următoarele 9 slide-uri veți observa imagini/fotografii despre fenomene, procese sau elemente geografice. Identificați, după numărul dat fiecărei imagini/fotografie, tipul de fenomen, proces sau element geografic observat și notați răspunsul pe foaia de lucru. (după numărul imaginii-notați răspunsul vostru).

Timp de lucru 10 minute(1min/slide)

- A következő 9 elektronikus diapozitív fényképein földrajzi jelenségeket, folyamatokat vagy földrajzi elemeket fogtok megfigyelni. Határozzátok meg a fényképeken ábrázolt földrajzi jelenséget, folyamatot vagy földrajzi elemet, és a fénykép száma alapján írjátok le a vizsgalapra a helyes választ!
- Munkaidő: 10 perc( 1perc/diapozitív)

**Identificați forma de relief de la imaginea marcată cu litera a și elementele spațiale din Univers marcate cu literele b,c și d!**

**Határozzátok meg az a betűvel jelölt domborzati formát, valamint a b, c és d betűkkel jelölt képeken látható, jelölt égitestek nevét!**

1












**Identificați fazele Lunii marcate cu literele de la a...până la d!**
**Határozzátok meg az a–tól ...d-ig terjedő betűkkel jelölt holdfázisokat!**

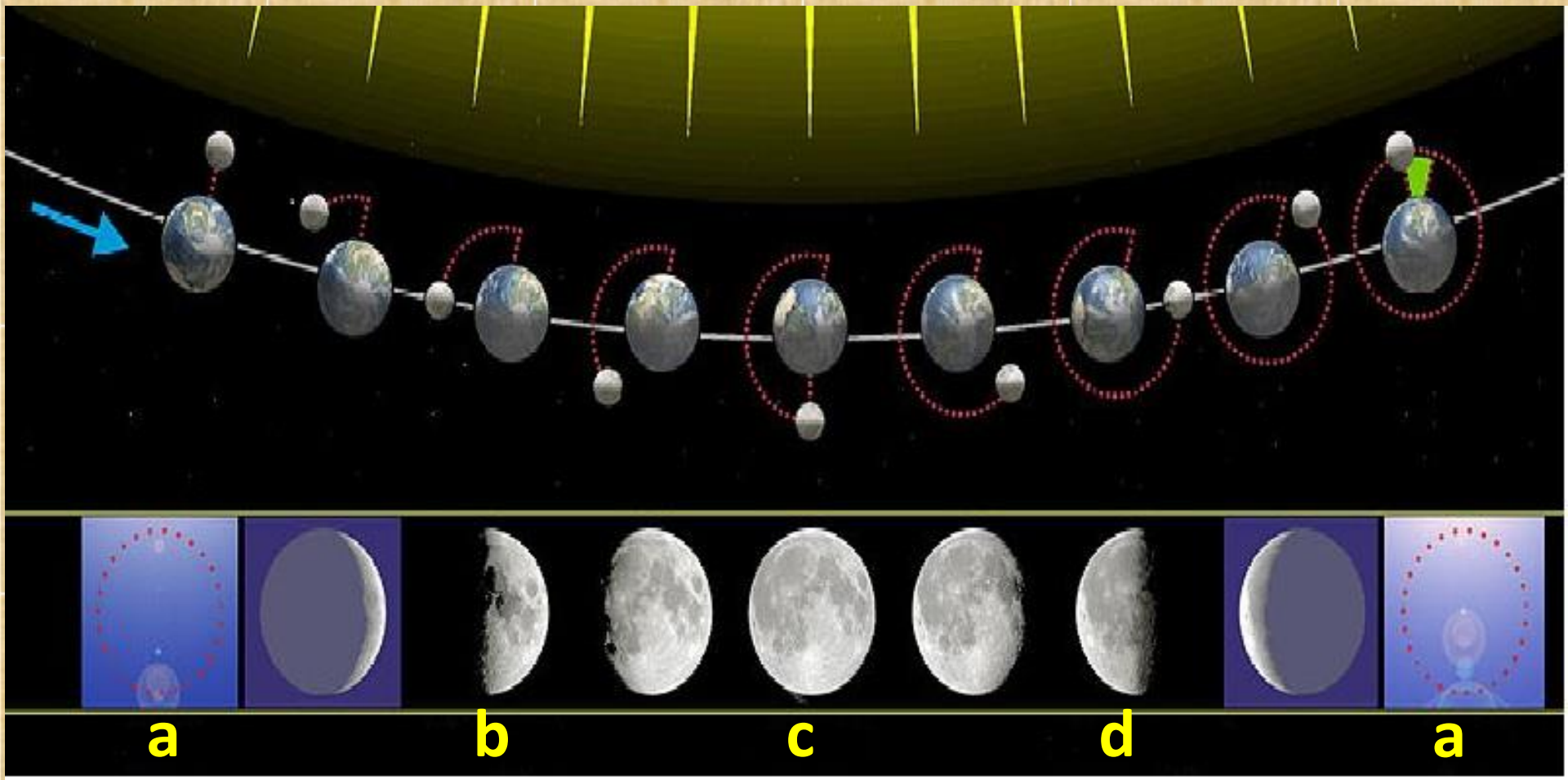

**Identificați numele fenomenelor geografice marcate cu numerele 1 și 2 de la imaginea alăturată. Realizați corespondența dintre cifre si litere!**

**Nevezzétek meg a mellékelt képen 1 és 2 számokkal jelölt földrajzi jelenségeket. Társítsátok össze a számokat a megfelelő betűkkel !**

**3**

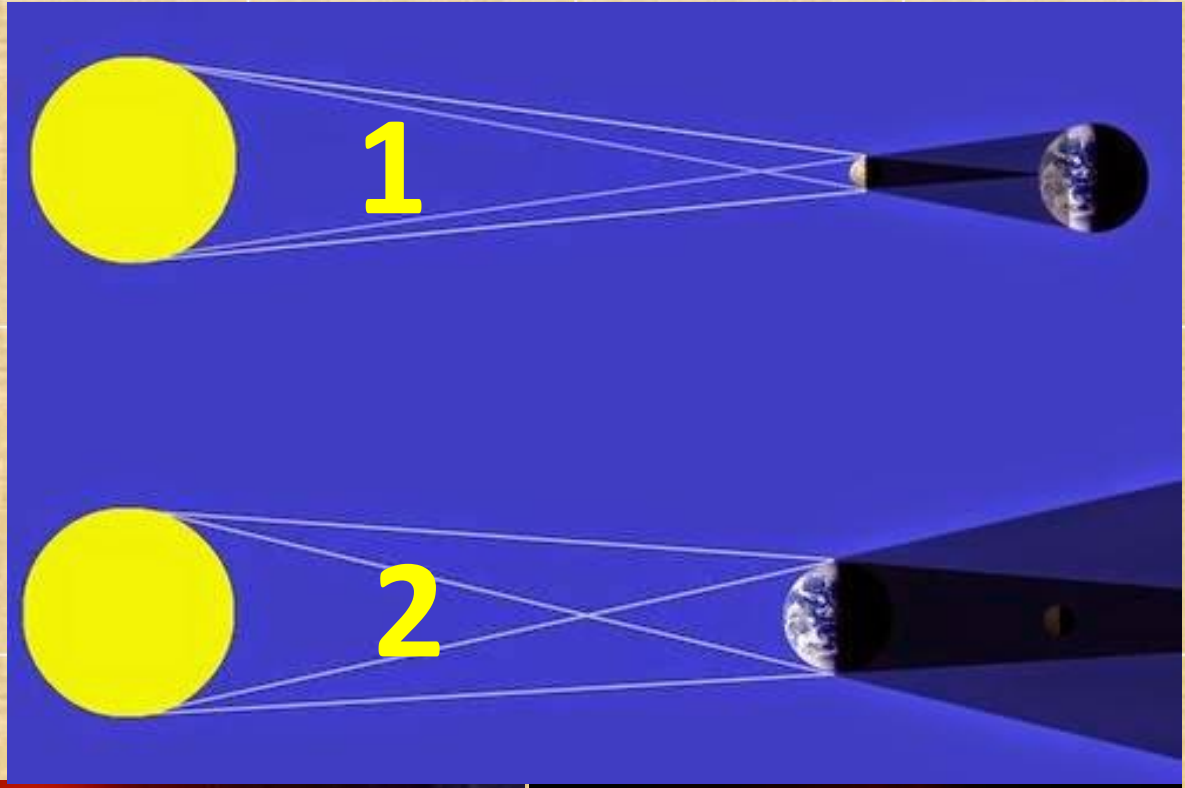







**Identificați elementele hărții topografice indicate prin săgeți de la puntele marcate cu a, b, c și d!**

**Nevezzétek meg az alábbi topográfiai térkép nyilakkal jelölt elemeit az a, b, c és d pontokban!**

**4**

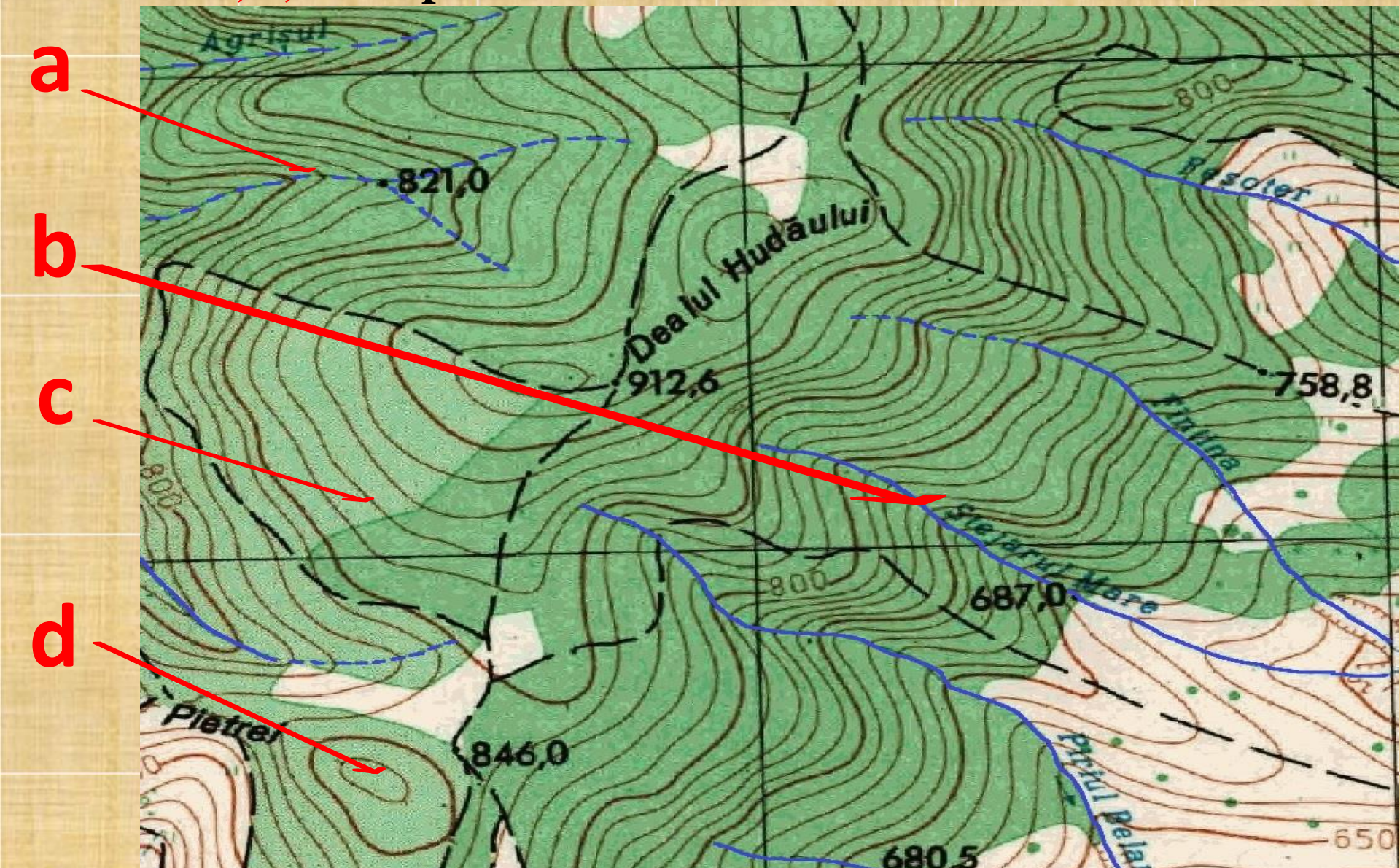

**Identificați <u>tipul de relief</u> din imagine, respectiv <u>agentul moderator al reliefului</u> care a creat formele de relief din imagine!**
**Nevezzétek meg a képen látható domborzat típusát, valamint azt a felszínformáló elemet, amely ezt kialakította!**



**Identificaţi procesul gravitaţional din imagine respectiv numele elementelor marcate cu literele a şi b!**

**Határozzátok meg a képen látható gravitációs tömegmozgási folyamatot valamint az a és b pontokkal jelölt elemek neveit!**



**Denumiți tipul de relief din imagine și numele formei de relief indicate prin săgeți !**

**Nevezzétek meg a képen látható domborzati típust, valamint a nyilakkal jelölt domborzati forma nevét!**

**7**



**Identificaţi tipul de relief, respectiv forma de relief din imagine!**
**Nevezzétek meg a képen látható domborzati típust, valamint a domborzati formát!**

8



**Identificați tipul de țărm de la imaginile marcate cu literele a și b!**

**Határozzátok meg az a és b pontokkal jelölt partok típusát!**







9